Nom : _____ SCOOP! Date : _____



Éclipse solaire



Lien vers la vidéo

Écoute la vidéo et réponds aux questions.

1- En quelle année a eu lieu la dernière éclipse solaire totale?

_____

_____

2- Que se passe-t-il avec les astres pendant une éclipse solaire?

_____

_____

3- Encercle le bon énoncé.
La lune passe devant :
a) la Terre
b) le Soleil
c) la planète

4- Encercle le bon énoncé.
À la fin de l'éclipse, la lune va sortir :
a) de la Terre
b) de la planète
c) du Soleil

5- Dans quel hémisphère du globe l'éclipse solaire sera la plus visible?

_____

6- En quelle année aura lieu la prochaine éclipse totale?

_____

7- Quelle partie du corps doit-on protéger lorsqu'on observer une éclipse solaire?

_____

8- Comment peut-on observer une éclipse solaire de façon sécuritaire?

_____

_____

_____

_____

_____

Nom : _____ SCOOP! Date : _____



Éclipse solaire



Lien vers la vidéo

Écoute la vidéo et réponds aux questions.

9- Est-ce que les lunettes de soleil sont efficaces pour observer une éclipse solaire?

_____

10- Est-ce que les anciennes lunettes à éclipses solaires sont encore recommandées?

_____

11- À quel endroit sur le globe l'éclipse solaire sera totale le 20 mars 2015?

_____

12- Combien de temps durera l'éclipse solaire totale?

_____

Dessine une éclipse solaire

Nom : _____ SCOOP! Date : _____

La pêche récréative

Lien vers le dossier

Lis le dossier et réponds aux questions.

7- Choisis un graphique de ton choix, analyse-le puis explique-le en quelques phrases.